



وزارة التربية

إدارة الشئون التعليمية

مراقبة الامتحانات وشئون الطلبة



نموذج الإجابة

المرحلة المتوسطة

إختبارات الدور الثاني

المادة : الرياضيات

الصف : السابع

العام الدراسي

2018 / 2017

وزارة التربية	امتحان الدور الثاني	للعام الدراسي : ٢٠١٧ / ٢٠١٨
منطقة مبارك الكبير التعليمية	للفترة الدراسية الثانية	الزمن : ساعتين
التوجيه الفني للرياضيات	الصف : السابع	عدد الأوراق : (٧)

أولاً: الاسئلة المقالية

السؤال الأول **(توضيح خطوات الحل في جميع الأسئلة)**

١٢

أ) حل التناسب التالي:

$$\frac{٨}{ل} = \frac{٦}{١٥}$$

$٦ \times ل = ٨ \times ١٥$

$\frac{ل \times ٦}{٦} = \frac{٥ \times ٨ \times ٤}{٦}$

$ل = ٢٠$

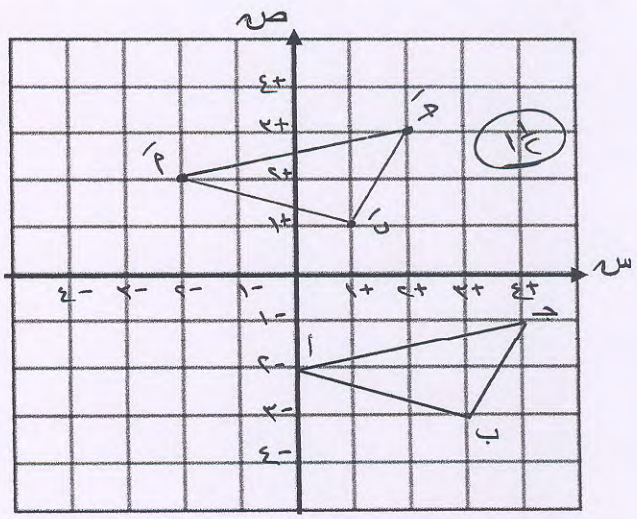
١

$\frac{١}{٢} + \frac{١}{٢} + \frac{١}{٢}$

$\frac{١}{٢}$

٣

ب) أنشئ المثلث أَ بَ جَ بعمل إزاحة للمثلث أ ب جـ وحدتين يساراً و ٤ وحدات الى أعلى. حدد احداثيات النقاط أَ ، بَ ، جَ.



أَ (٠٠٢- ، ٠٠٢-) ①

بَ (٠٠١- ، ٠٠١-) ①

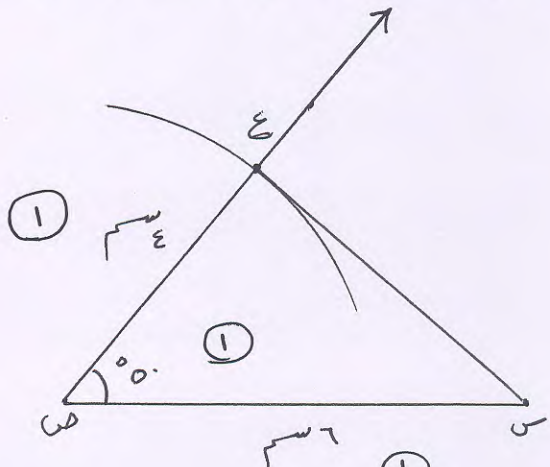
جَ (٠٠٢- ، ٠٠٣-) ①

① على التدريج

٥

ج) ارسم المثلث س ص ع حيث س ص = ٦ سم ، ص ع = ٤ سم ، ق ($\hat{ص}$) = ٥٠°.

① التوصيل

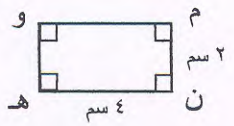


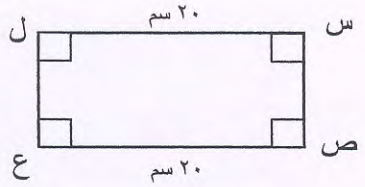
٤

١٢

السؤال الثاني

أ) في الشكل المقابل :
المستطيل م ن هـ و ~ المستطيل س ص ع ل ،
أوجد س ص (بدون استخدام الأدوات الهندسية)





المستطيل م ن هـ و ~ المستطيل س ص ع ل

$\frac{م ن}{س ص} = \frac{ن هـ}{ص ع}$ ١

$\frac{٢}{س ص} = \frac{٤}{٢٠}$ ١/٢

$\frac{٤ \times س ص}{٤} = \frac{٢ \times ٢٠}{٤}$ ١/٢

س ص = ١٠ سم ١

٤

ب) لديك مجموعة بطاقات مرقمة من (١ الى ٨). افترض أنك اخترت بطاقةً واحدةً بطريقة عشوائية ، أوجد كلا مما يلي :

- ل (ظهور العدد ٤) = $\frac{١}{٨}$ ١
- ل (ظهور العدد ٣ أو العدد ٦) = $\frac{٢}{٨} = \frac{١}{٤}$ ١
- ل (ظهور عدد أكبر من ٨) = $\frac{٠}{٨}$ = صفر ١
- ل (ظهور عدد فردي) = $\frac{٤}{٨} = \frac{١}{٢}$ ١
- ل (ظهور عدد أصغر من ٩) = $\frac{٨}{٨} = ١$ ١

٥

ج) توفيت سيدة وتركت ميراثاً قدره ٢٥٠٠٠ دينار، وتم توزيع الميراث على ولد وثلاث بنات.
احسب نصيب كل من الورثة.

عدد الحصص التي تمثل الولد وثلاث بنات هو ٥ ١/٢

قيمة الحصة الواحدة = ٢٥٠٠٠ ÷ ٥ = ٥٠٠٠ دينار ١

اذاً حصة كل بنت = ٥٠٠٠ دينار ١/٢

حصة الولد = ٢ × ٥٠٠٠ = ١٠٠٠٠ دينار ١

٣

السؤال الثالث

١٢

أ) حل المعادلة التالية :

$$٢\frac{٢}{٣} = \frac{٢}{٥} + س$$

$$\frac{٢}{٥} - ٢\frac{٢}{٣} = \frac{٢}{٥} - س$$

$$س = ٢\frac{١٠}{١٥} - \frac{٦}{١٥}$$

$$= ٢\frac{٤}{١٥}$$

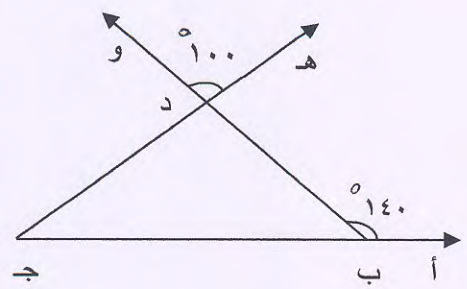
١+١

١+١

١

٥

ب) مستعيناً بالشكل المقابل :
أكمل ما يلي (بدون استخدام الأدوات الهندسية)



ق (ب د̂ جـ) = ... ١٠٠° ..... (١)

السبب : ..... بالمتقابل بالرأس ..... (١)

ق (ب جـ̂ د) = ... ٤٠° ..... (١)

السبب : بما ان كل زاوية خارجة للمثلث يساوي مجموع قياسي الزاويتين الداخليتين عدا المجاورة (١)

٤

ج) اوجد قيمة س في ما يلي:

٣٠ % من س = ٢١

$$٣٠\% \times س = ٢١$$

$$س = ٢١ \times \frac{١٠٠}{٣٠}$$

$$س = ٧٠$$

½

½

١

١

٣

السؤال الرابع

١٢

أ) ثلاث كرات ملونة : حمراء ، خضراء ، زرقاء. إذا سحبت كرة واحدة عشوائياً ثم أعيدت ، وسحبت كرة مرة أخرى عشوائياً:

١) أوجد عدد جميع النواتج الممكنة للتجربة. ١

عدد النواتج الممكنة = ٣ × ٣ = ٩

٢) بين نوع كل من الأحداث التالية:

- سحب كرتين احداهما زرقاء والأخرى خضراء. (حدث ...مركب.....) ١
- سحب كرة حمراء ثم كرة حمراء. (حدث...بسيط.....) ١

٣

ب) أوجد الناتج ثم ضعه في أبسط صورة:

$$١\frac{٢}{٧} \times ٤\frac{٢}{٣}$$

$$= \frac{٩}{٧} \times \frac{١٤}{٣}$$

$$= \frac{٣ \times ١٤}{٧ \times ٣}$$

$$= ٦$$

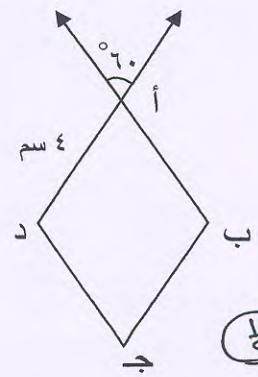
١ + ١

١

١

٤

ج) أ ب جـ د معين . أكمل كلا مما يلي:



١) ق (ب أ د) = ٦٠° ①

السبب: بالمقابل بالرأس ½

٢) ق (جـ) = ٦٠° ①

السبب : كل زاويتين متقابلتين في المعين متساويتان في القياس ½

٣) طول $\overline{د جـ}$ = ٤ سم ①

السبب : جميع أضلاع المعين متساوية في الطول ①

٥

ثانياً: الأسئلة الموضوعية

السؤال الخامس (التظليل في الجدول المخصص في الصفحة الأخيرة)

أولا : البنود (١-٤) ظلل (أ) إذا كانت العبارة صحيحة ، ظلل (ب) إذا كانت العبارة خطأ .


١	٠,٣٨ ، $\frac{٢}{٥}$ ، ٠,٢٤٥ مرتبة ترتيباً تنازلياً.
٢	قياس الزاوية التي تمثل $\frac{٣}{٤}$ دورة كاملة يساوي ٢٧٠° .
٣	المربع هو معين احدى زواياه قائمة .
٤	قيمة المتغير الذي يحقق المعادلة : $\frac{٢}{٥}$ م = ٤ هو ١٠

ثانياً : البنود (٥-١٢) لكل بند أربع اختيارات ظلل في الورقة المخصصة للإجابة دائرة الاختيار الصحيح فقط .

٥) ٠,٢٤ في صورة كسر اعتيادي في أبسط صورة يساوي:

(أ) $\frac{٢٤}{١٠٠}$ (ب) $\frac{٦}{٢٥}$ (ج) $\frac{١٢}{٥٠}$ (د) $\frac{٨}{٢٥}$

٦) أ ب جـ د مستطيل ، فإن قياس (أ $\hat{جـ}$ د) =



(أ) ٢٥° (ب) ٤٥° (ج) ٥٠° (د) ٦٥°

٧) النسبة التي تكون تناسبا مع النسبة $\frac{٢}{٧}$ هي :

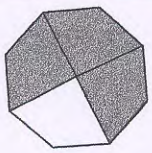
(أ) $\frac{٥}{١٤}$ (ب) $\frac{٤}{١٤}$ (ج) $\frac{٥}{٢١}$ (د) $\frac{٤}{٣٥}$

٨) $٥\frac{١}{٤} + ٢,٧٥ =$

(أ) ٧ (ب) ٨

(ج) $٨\frac{١}{٤}$ (د) ٣,٧٥

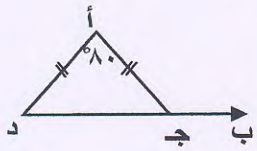
٩) النسبة المئوية للجزء المظلل هي:



(أ) ٢٥% (ب) ٤,٣ %

(ج) ٣,٤ % (د) ٧٥ %

١٠) في الشكل المقابل باستخدام المعطيات التي في الرسم ، قياس (أ جـ ب) =



(أ) ٥٠° (ب) ١٠٠°

(ج) ١٣٠° (د) ٨٠°

١١) إذا كانت أ (-٢ ، -٤) هي صورة النقطة أ بالانعكاس في محور السينات فإن احداثي أ هو :

(أ) (٢ ، -٤) (ب) (٢ ، ٤)

(ج) (-٢ ، -٤) (د) (-٢ ، ٤)

١٢) إذا كان احتمال فوزك في لعبة $\frac{٣}{٥}$ فإن احتمال عدم فوزك في صورة نسبة مئوية هو

(أ) ٢٠ % (ب) ٦٠ %

(ج) ٤٠ % (د) ٨٠ %

جدول تظليل إجابات الموضوعي

رقم السؤال	الإجابة			
(١)	ا	ب		
(٢)	ا	ب		
(٣)	ا	ب		
(٤)	ا	ب		
(٥)	ا	ب	ج	د
(٦)	ا	ب	ج	د
(٧)	ا	ب	ج	د
(٨)	ا	ب	ج	د
(٩)	ا	ب	ج	د
(١٠)	ا	ب	ج	د
(١١)	ا	ب	ج	د
(١٢)	ا	ب	ج	د

١٢

لكل بند من البنود الموضوعية درجة واحدة فقط