وزارة التربية
التوجيه الفني العام للعلـــوم

نموذج (٢)

عدد الاوراق : ٤ اوراق بدون الغلاف
زمن الاختبار: ساعتان وربع

٥٠

امتحان مادة العلوم النهائي للصف السادس متوسط
الفصل الدراسي الثاني
للعام الدراسي ٢٠١٦/٢٠١٧ م

السؤال الاول :اختر الاجابة الصحيحة علميا لكل من العبارات التالية وضع علامة (√) في المربع المقابل لها :

١٠

١. احد العضيات التالية توجد في الخلايا الحيوانية فقط :

☐ جدار الخلية ☐ **الجسم المركزي** ☐ الميتوكندريا ☐ البلاستيدات الخضراء

٢.الكائنات المجهرية التي تتكون من مادة وراثية محاطة بغلاف بروتيني :

☐ الفطريات ☐ البكتيريا ☐ الطلائعيات ☐ **الفيروسات**

٣. جميع الأمراض التالية تسببها الفيروسات ما عدا :

☐ **الكوليرا** ☐ الحصبة ☐ الإيدز ☐ الانفلونزا

٤. في الشكل المقابل يتكاثر هذا الكائن لاجنسياً بـ :



☐ الانشطار ☐ الجراثيم ☐ **الابصال** ☐ التبرعم

٥. المادة التي تتفكك جزيئاتها وتذوب في مادة أخري هي :

☐ الراسب ☐ المذيب ☐ **المذاب** ☐ المستحلب

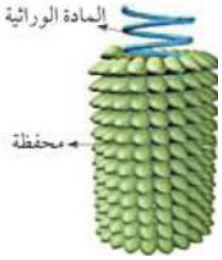
٦. أي من المواد التالية لا يعتبر مستحلب :

☐ عصير البرتقال ☐ عصير التفاح ☐ الزبادي ☐ **الخل**

٧. جميع التراكيب التالية توجد في الخلية البكتيرية ماعدا :

☐ **الغشاء النووي** ☐ المحفظة ☐ السوط ☐ المادة النووية

موقع عبد هماد



٨. الفيروس الذي يمثله الشكل المقابل هو فيروس :

☐ الايدز ☐ السعار ☐ الورم الحليمي ☐ **نبات التبغ**

٩. تمثل الصورة المجاورة خلية :



☐ عضلية ☐ **جلد الانسان** ☐ عصبية ☐ دم حمراء

١٠. تتشابه الفيروسات مع الخلايا الحية في القدرة علي :

☐ **التكاثر** ☐ الحركة ☐ التغذية ☐ التنفس

السؤال الثاني :اكتب بين القوسين كلمة (صحيحة) للعبارة الصحيحة وكلمة (خطأ) للعبارة غير الصحيحة علميا فى كل مما يأتى :

٨

١. يمكن رؤية الأشياء متناهية الصغر بواسطة المجهر . (صحيحة)

٢. ينتقل فيروس الإيدز عن طريق العطاس والسعال . (خطأ)

٣. تتكاثر البكتيريا في الماء ، و يزيد نشاطها في ضوء الشمس . (صحيحة)

٤. التكاثر اللاجنسي يشترك في تكوينه فردان مختلفان جنسياً . (خطأ)

٥. الهدف الاساسي من تربية الحيوانات الزراعية هو توفير المواد الغذائية الحيوانية . (صحيحة)

٦. اعادة تدوير النفايات يزيد من تلوث البيئة . (خطأ)

٧. العضو عبارة عن مجموعة من الخلايا التي تعمل معاً . (خطأ)

٨. الراسب هو المادة الصلبة المتشكلة في المحلول السائل . (صحيحة)

السؤال الثالث : فى الجدول التالى اختر العبارة أو الشكل من المجموعة (ب) واكتب رقمها أمام ما يناسبها من عبارات المجموعة (أ):

١٢

الرقم المناسب	المجموعة (أ)	المجموعة (ب)
(٣)	خلايا تتميز بالقدرة علي الانقباض والانبساط لتسهل حركة الجسم .	١- الدم الحمراء ٢- العصبية ٣- العضلية
(١)	خلايا تقوم بنقل الاكسجين والمواد الاخرى الي داخل جسم الكائن الحي .	

(٢) (٣)	- مرض يصيب جلد الانسان وتسببه الفيروسات . - مرض يصيب جلد الانسان وتسببه البكتيريا .	١- الحمى القلاعية ٢- الجدري ٣- حب الشباب
(٣) (١)	- الزراعة بدون تربة تعرف بالزراعة - الزراعة في البيوت البلاستيكية تعرف بالزراعة	١- المحمية ٢- النسيجية ٣- المائية
(١) (٣)	- طريقة فصل مكونات عصير التوت تسمي - طريقة فصل المادة الصلبة المذابة في المحلول المشبع بالتبريد تسمي	١- التقطير ٢- الكروماتوغرافيا ٣- التبلور

٤

السؤال الرابع (أ) : قارن بين كل مما يلي كما هو موضح في الجدول التالي :

وجه المقارنة	البكتريا	الإنسان
نوع التكاثر (جنسي/لا جنسي)	**--- لا جنسي ---**	**---- جنسي --**
وجه المقارنة	**الخلية النباتية**	**الخلية الحيوانية**
البلاستيدات الخضراء	**------- يوجد ------**	**---------- لا يوجد -----**

٢

(ب) ماذا يحدث في كل من الحالات التالية :

١. عند عدم غسل اليدين جيداً قبل الأكل .

يتم الاصابة بالأمراض البكتيرية او الفيروسية .

٢. عند عدم وجود الميتوكوندريا في الخلية .

لا يتم امداد الخلية بالطاقة

٢

(ج) علل لما يلي تعليلا علميا سليما :

١. وجود الفجوة العصارية في داخل الخلايا .

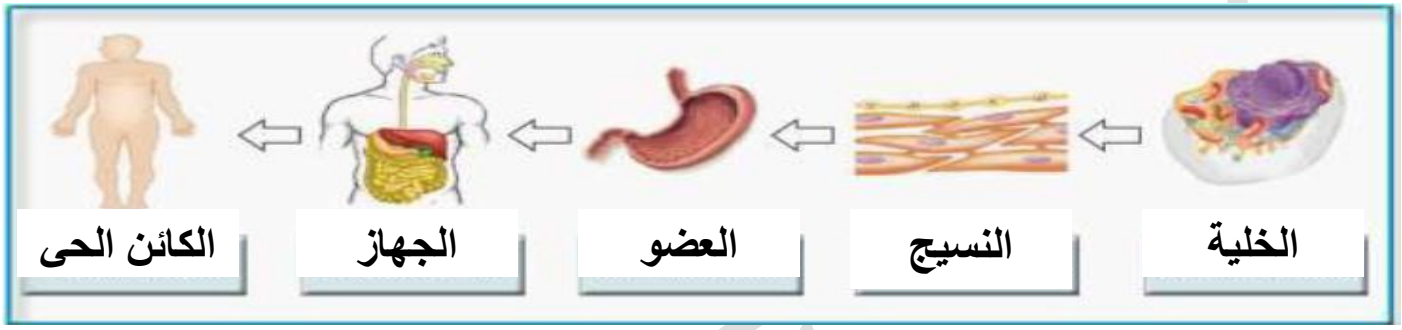
لكي تقوم بتخزين الماء والغذاء

٢. حدوث عملية التكاثر في الكائنات الحية .

لإنتاج افراد لكائنات جديدة من نفس النوع .

٤

السؤال الرابع (أ) ادرس الرسومات التالية ثم اجب عن المطلوب :

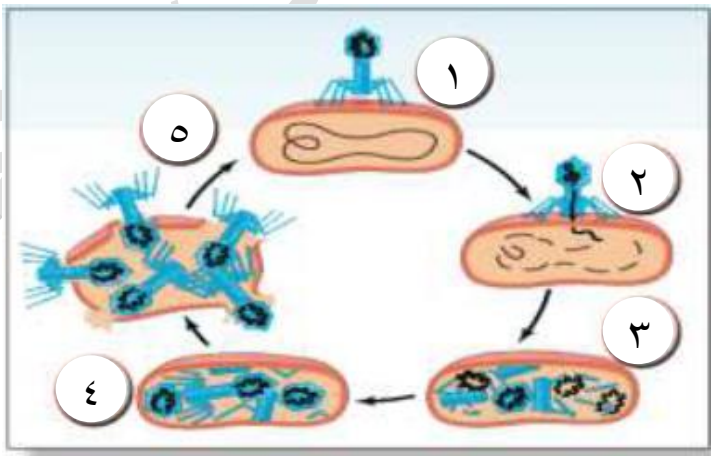


ضع الكلمات التالية في مكانها المناسب لتصل في النهاية الى مستويات التعضي الرئيسية في الكائنات الحية :

النسيج ــ الخلية ــ الكائن الحي ــ الجهاز

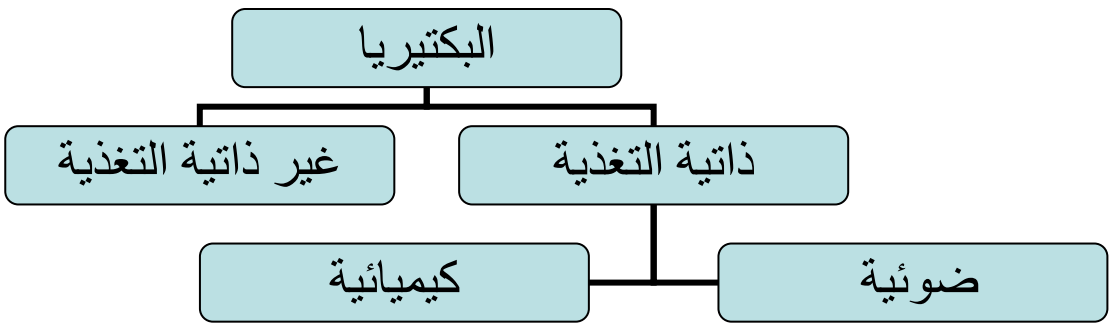
(ب) اكمل ترتيب مراحل تكاثر الفيروس على الشكل التالي :

٢



(ج) اكمل خريطة المفاهيم التالية :

٤



(د) اذكر او عدد اثنين مما يلي :

١. الاستخدامات العامة للمستحلبات :

صناعة الشكولاتة - صناعة البوظة

٢

٢. اشكال البكتريا :

الكروية ــ العصوية

مؤمن علي همام